Занятие второе.

Начинаем занятие на тему: **ЛИНИИ.**

Клеточка начала второе занятие:

— В шахматы обычно играют два ПРОТИВНИКА. Их еще называют ПАРТНЕРЫ. Они садятся лицом друг к другу. Шахматная доска располагается между противниками так, чтобы угловое поле справа от каждого игрока было белого цвета... Как нам правильно сесть за шахматную доску?

ПОМОГИ ЮРЕ

Юра усадил за стол девочку, с противоположной стороны стола сел сам. Вот так.

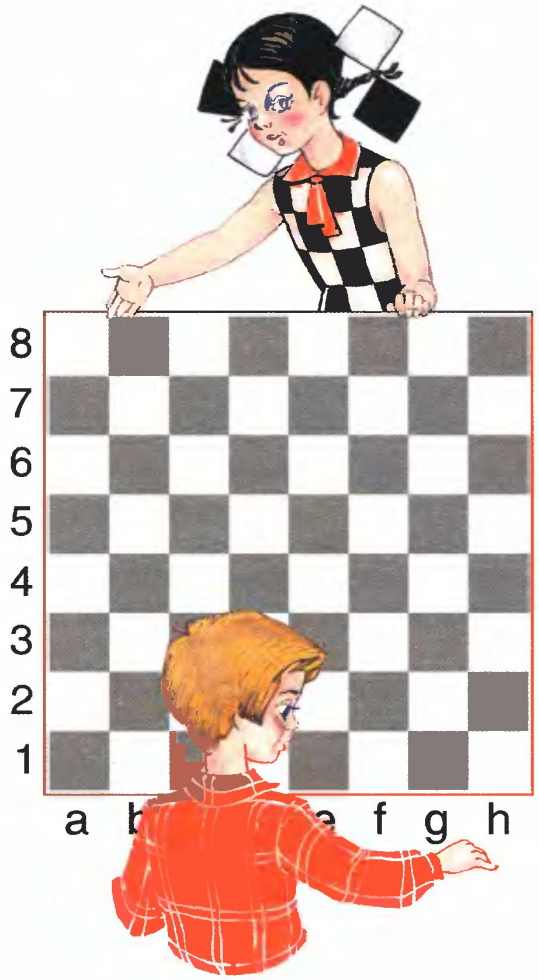

Посмотри на шахматную доску: квадратики разных цветов всегда чредуются. Чернок поле следует за белым, белое за черным. Любая черно-белая дорожка из восьми полей, которая проходит слева направо - это ГОРИЗОНТАЛЬНАЯ ЛИНИЯ или ГОРИЗОНТАЛЬ.

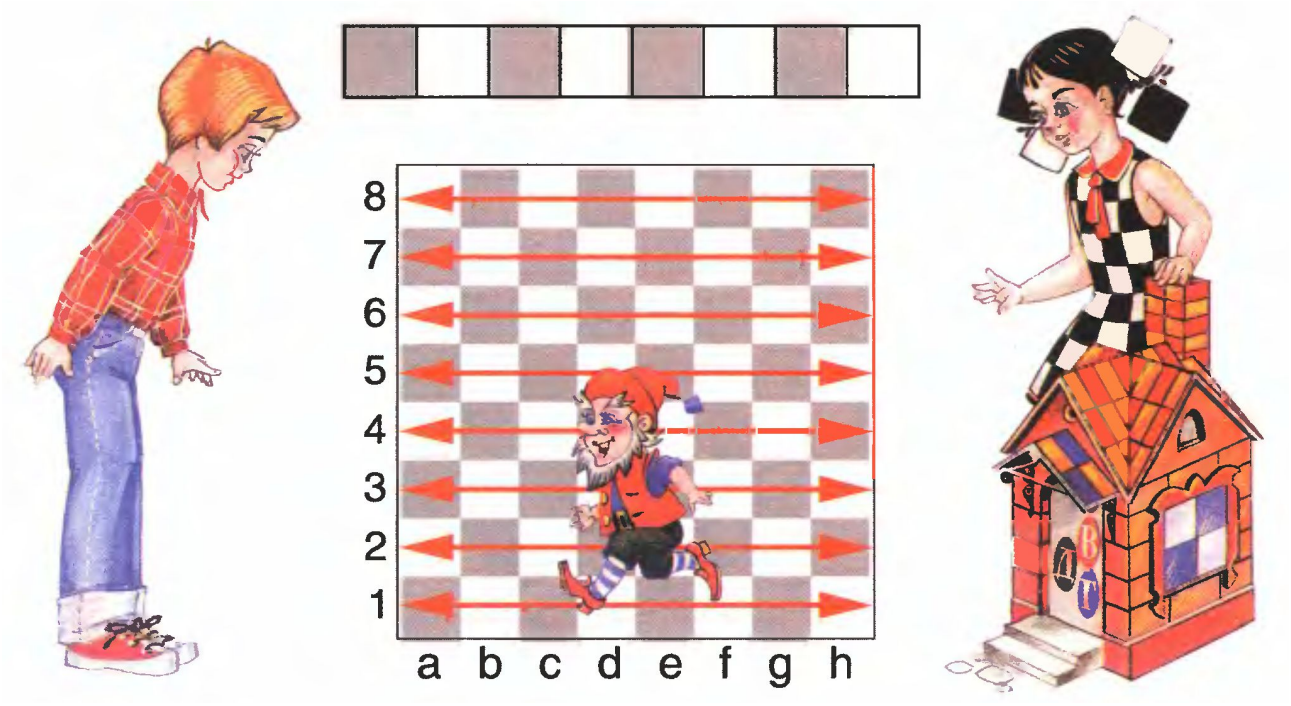

И симпатичный гномик Горизонталик ловко прыгнул на белую клетку и проворно побежал по горизонтали до противоположного края доски.

Горизонталик показал одну из горизонтальных линий, - пояснила Клеточка. - А всего их восемь. За белым полем каждой горизонтали следует черное, за черным - белое.

— Любая черно-белая дорожка, которая идет от одного противника к другому, — это ВЕРТИКАЛЬНАЯ ЛИНИЯ, или ВЕРТИКАЛЬ. Вертикалей, как и горизонталей, восемь. За белым полем каждой вертикали следует черное, за черным — белое.

Гномик Вертикалик пробежал по клеточкам сверху вниз по вертикали.

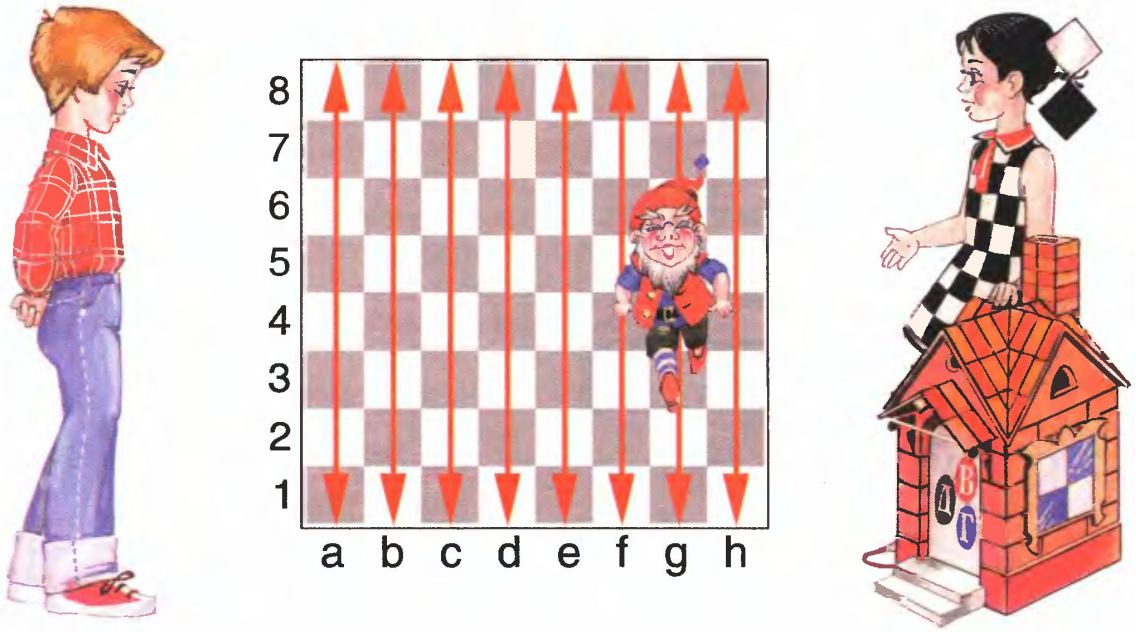

А сейчас "Загадки из тетрадки". - сказала Клеточка.

1. Что делают противники за шахматной доской? А партнеры?
2. Как правильно сесть за шахматную доску?
3. Покажи какую-нибудь горизонталь. Сколько полей в горизонтали?
4. Покажи все горизонтальные линии. Сколько на доске горизонталей?
5. Покажи какую-нибудь вертикаль. Сколько полей в вертикали?
6. Покажи все вертикальные линии. Сколько на доске вертикалей?
7. Что длиннее: горизонталь или вертикаль?
8. Бывают ли в горизонтали рядом два белых поля? А два черных?
9. Бывают ли в вертикали рядом два черных поля? А два белых?
10. Сколько белых полей в горизонтали? А в вертикали?

11. Сколько черных полей в горизонтали? А в вертикали?

12. Каких полей в горизонтали больше: белых или черных? А в вертикали?

13. Правильно ли нарисованы такие горизонтали и вертикали?

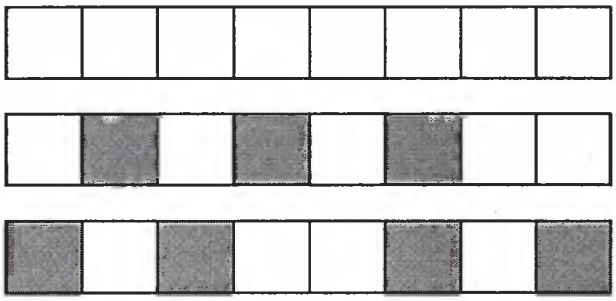



Занятие окончено. Спасибо за внимание!